NUMERATION - Les nombres décimaux (les fractions décimales) / D6

Nom : .....

Date : .....

1- Colorie : - en vert les nombres compris entre 8 et 9.
- en rouge les nombres compris entre 9,4 et 9,5.
- en bleu les nombres compris entre 9,25 et 9,35.

Il y a 3 intrus !

8,01 | 8,5 | 9,32 | 9,43 | 9,257 | 9,54 | 9,499 | 8,259 | 9,26 | 9,450 | 9,340 | 9,028 | 85,92 | 9,49 | 8,709

Souviens-toi :
2,5 = 2,50 = 2,500
2,15 = 2,150
2,01 = 2,010

2- Écris les bons nombres sous les flèches de chaque droite graduée.

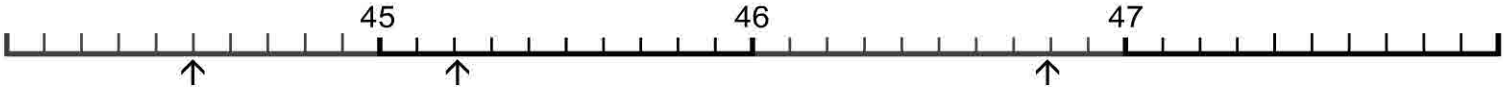

....

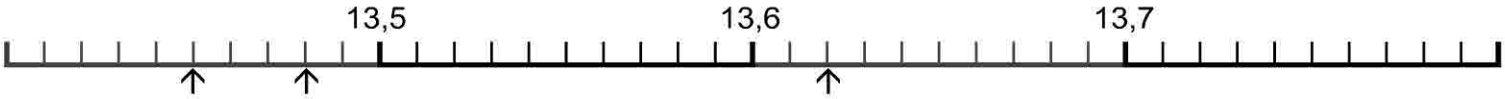

....

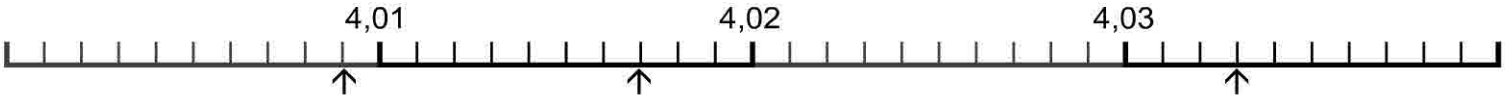

....

3- Deux portraits de nombre...

Je suis un nombre décimal avec deux chiffres après la virgule.

Ma partie entière en a trois.

Je suis compris entre quatre cent deux et quatre cent trois.

Mon chiffre des centièmes est le même que celui de mes centaines.

Mon chiffre des dixièmes est le même que celui de mes dizaines.

Je suis : .....

Pour t'aider : ___ ___ ___ , ___ ___

J'ai quatre chiffres.

J'en ai trois dans ma partie décimale.

Mon chiffre des unités est pair et le plus grand.

Mes chiffres après la virgule sont tous identiques.

Si on m'ajoute un millième, je deviens un nombre entier.

Je suis : .....

Pour t'aider : ___ , ___ ___ ___